Movilidad residencia-trabajo ·1

Gráfico "Población que se desplaza a otros municipios por razón de trabajo por áreas urbanas en Andalucía". Año 2001

1. Define qué es un área urbana.
2. Nombra las áreas urbanas existentes en Andalucía y di si el municipio en que vives se encuentra incluido en alguna de ellas. Justifica tu respuesta.
3. Localiza sobre un mapa político mudo de Andalucía todas las áreas urbanas de la Comunidad, señalando cada una de ellas con un círculo cuyo tamaño sea proporcional al porcentaje de trabajadores que se desplazan a otros municipios.
4. Sobre las áreas urbanas andaluzas, ¿cuál es la mayor de todas? ¿Qué circunstancias hacen que el área urbana de Granada sea la que más trabajadores desplace desde su localidad de residencia? ¿Por qué esta movilidad laboral espacial es tan escasa en el área de Córdoba? Averigua también la situación del área urbana más cercana a tu municipio.

Población que se desplaza a otros municipios por razón de trabajo por áreas urbanas en Andalucía. Año 2001

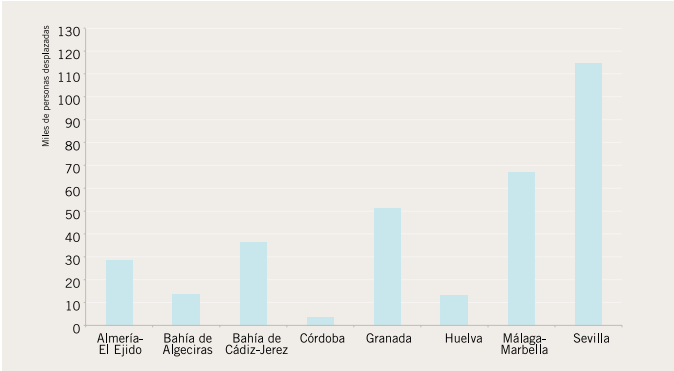

Gráfico "Principales municipios emisores de población por razón de trabajo en las áreas urbanas en Andalucía". Año 2001

1. Con los datos del gráfico completa la tabla situando cada uno de los municipios junto al área urbana a la que pertenece. A continuación responde las preguntas.

ÁREA URBANA	MUNICIPIOS
Almería	
Bahía de Algeciras	
Bahía de Cádiz-Jerez	
Córdoba	
Granada	
Huelva	
Málaga	
Sevilla	

   a) ¿A qué área o áreas urbanas pertenecen mayoritariamente los principales municipios emisores de población por razón de trabajo en Andalucía?
   b) ¿Cuáles crees que son las circunstancias especiales que empujan a más trabajadores a desplazarse por motivos laborales desde estas localidades?
   c) Si vives en uno de los municipios que aparecen en el gráfico, analiza y describe la situación socioeconómica y laboral que ocasiona estos desplazamientos. Si no, elige el municipio más próximo a tu localidad y realiza la misma actividad.

Principales municipios emisores de población por razón de trabajo en las áreas urbanas en Andalucía. Año 2001

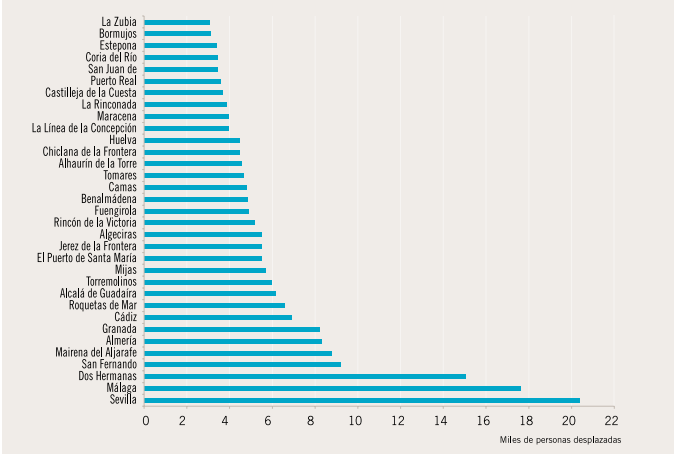

Gráfico "Principales municipios receptores de población por razón de trabajo en las áreas urbanas en Andalucía". Año 2001

1. Sitúa los municipios del gráfico sobre un mapa político mudo de Andalucía utilizando distintos colores para diferenciar el área urbana a la que pertenecen. Añade una leyenda en uno de los márgenes del mapa para facilitar su comprensión (por ejemplo, color azul para los municipios del área urbana de Almería, etc.)
   a) Comenta el resultado del mapa que has realizado.
   b) ¿Cómo explicas que el municipio de Sevilla sea el principal receptor de población por razón de trabajo y también el principal emisor?
   c) ¿Por qué estos municipios tienen más capacidad de absorber mano de obra que otros términos andaluces?
   d) ¿Cuál crees que es la situación de tu municipio: emisor o receptor de mano de obra? Razona tu respuesta.
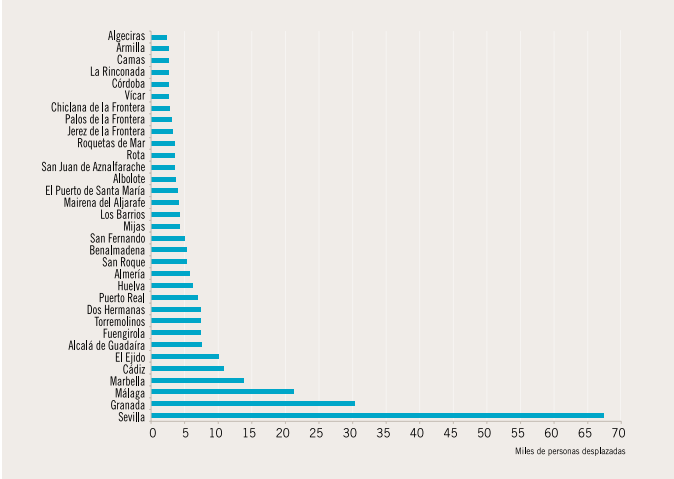
Principales municipios receptores de población por razón de trabajo en las áreas urbanas en Andalucía. Año 2001