Servicios Sociales ·3

Gráfico "Casos de drogadicción admitidos a tratamiento por edad y droga de consumo principal en Andalucía". Año 2007

1. Todos sabemos que el consumo de drogas es nocivo para la salud, pero ¿sabrías explicar qué se entiende por droga?
2. El gráfico nos da una idea de los tipos de droga que más afectan a la población andaluza según la edad. Analiza los datos y completa el cuadro según los datos de que dispones:

Escribe el nombre de las drogas consumidas por menores de 20 años	
¿Qué cinco tipos de droga afectan más a los mayores de 35 años?	
De 20 a 34 años, ¿cuáles son las drogas que más se consumen?	

3. Investiga sobre los efectos de las drogas más comunes (cannabis y derivados, cocaína, heroína, alucinógenos, inhalantes, sintaxis-éxtasis, alcohol, tabaco, psicofármacos, benzodiaceptinas y barbitúricos). Posteriormente poned en común en clase la información encontrada y organizad un debate sobre el consumo de drogas, sus causas y sus consecuencias.
4. Anotad en la pizarra, mediante la técnica de lluvia de ideas, eslóganes para concienciar a los jóvenes sobre los problemas derivados del consumo de drogas. Elegid cuatro de ellos entre todos y elaborad carteles para colgar en el aula o en el centro.

Casos de drogadicción admitidos a tratamiento por edad y droga de consumo principal en Andalucía. Año 2007

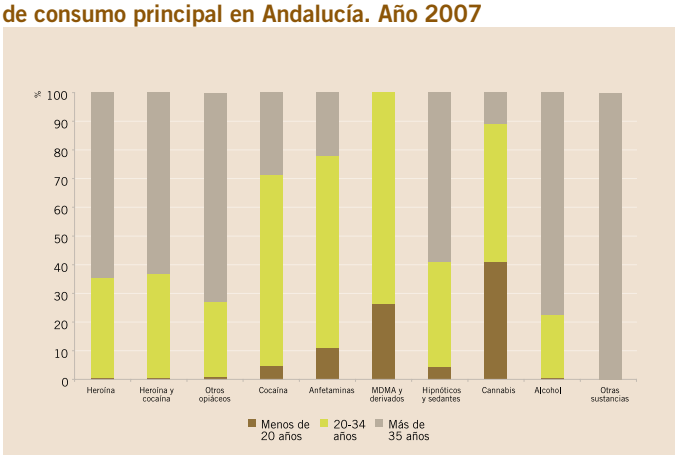

Gráfico "Casos de drogadicción admitidos a tratamiento por sexo y droga de consumo principal en Andalucía". Año 2007

1. Según el gráfico, ¿a qué sexo afecta más el consumo de drogas en Andalucía? ¿Piensas que hay alguna causa que explique esta diferencia? Justifica tu respuesta.
2. ¿Qué tipo de drogas afecta más a la mujer? Realiza una pequeña investigación sobre la misma y completa la ficha:

Fotografía	Nombre:
	Posible uso terapéutico:
	Efectos psicológicos y fisiológicos:
	Potencial de dependencia:
	Síndrome de abstinencia:
	Actuación en caso de emergencia:

3. ¿Crees que es una buena idea la automedicación? ¿Por qué?

Casos de drogadicción admitidos a tratamiento por sexo y droga de consumo principal en Andalucía. Año 2007

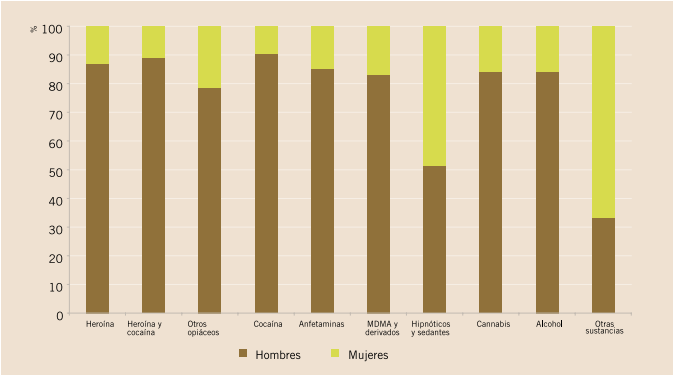

Gráfico "Evolución de los usuarios potenciales de los servicios sociales en Andalucía. Personas menores de 15 años". Años 2006-2050

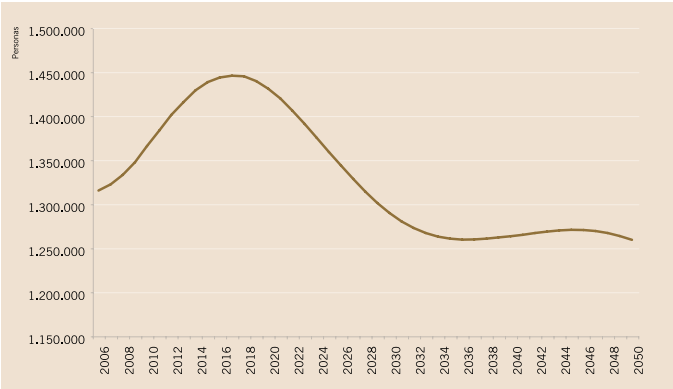

1. Averigua qué tipo de servicios sociales dan respuesta a los menores de 15 años en Andalucía y escríbelos.
   a) ¿Te parece que la función que cumplen es importante? ¿Por qué?
   b) ¿Crees que la integración y la protección social de este sector de la población queda garantizada mediante estos servicios sociales? Justifica tu respuesta y pon ejemplos.
2. Analiza el gráfico y realiza un comentario del mismo teniendo en cuenta las perspectivas socioeconómicas y demográficas de Andalucía.
3. Si las perspectivas del gráfico se cumplen, ¿cómo crees que se verá afectada la organización de las prestaciones sociales en nuestra Comunidad Autónoma? ¿Por qué?