Educación ·1

Mapa "Estudiantes por regiones en la Unión Europea". Año 2006

1. Hay un país europeo en el que el porcentaje de estudiantes con respecto a su población total supera ampliamente al del resto de los países, ¿cuál es ese país? ¿Podría decirse que se trata de un país joven demográficamente hablando? ¿Cuál puede ser, por tanto, el motivo de esta diferencia?
2. En términos absolutos (miles de estudiantes), ¿cuáles son las comunidades autónomas españolas con mayor número de estudiantes? ¿Y en términos relativos (%)? ¿Qué explicación podría darse a esta distribución?
3. Indudablemente la educación es un servicio básico indispensable en cualquier sociedad. Describe en dos listas:
   a) Las ventajas que puede obtener una persona al recibir una formación adecuada.
   b) Las ventajas que puede alcanzar un país al desarrollar convenientemente la educación de su población.

Estudiantes por regiones en la Unión Europea. Año 2006

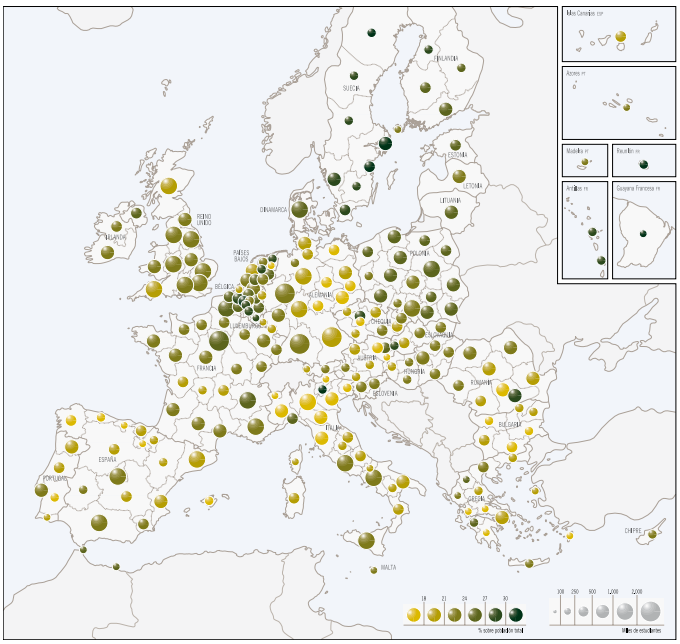

Mapa "Centros de educación primaria y secundaria por municipios en Andalucía". Curso 2006-2007

1. ¿En qué zonas de Andalucía se localizan los municipios con mayor número de centros educativos? ¿A qué puede ser debido?
2. ¿Qué ocurre con la población en edad escolar de los municipios que no poseen centros de educación primaria y secundaria?
3. Sobre un plano de tu localidad, dibuja un punto azul sobre los lugares en los que existe un centro de educación primaria y uno rojo sobre los centros de educación secundaria.
   a) ¿Cuáles son más abundantes? ¿Por qué?
   b) ¿En qué barrios o zonas de la ciudad hay más centros educativos de primaria y secundaria? ¿Cuál puede ser la explicación?
   c) ¿Crees que es suficiente la dotación de centros escolares en tu municipio? ¿Por qué?

Centros de educación primaria y secundaria por municipios en Andalucía. Curso 2006-2007

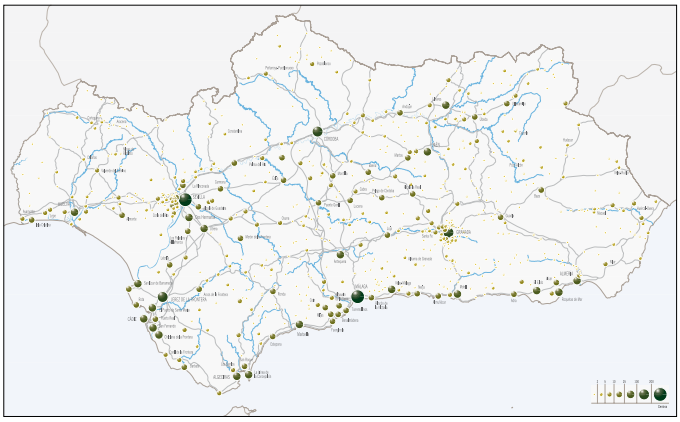

Mapas
"Alumnado matriculado en centros públicos por provincias en España". Curso 2007-2008
"Alumnado matriculado en centros privados por provincias en España". Curso 2007-2008

1. ¿Qué diferencias existen entre un centro educativo de carácter público y uno privado? ¿Qué son los centros privados concertados?
2. Si comparas detenidamente los mapas observarás que ambos se complementan, dado que el carácter obligatorio de la enseñanza en nuestro país hasta los 16 años hace que todos los jóvenes que no hayan alcanzado esta edad deban estar matriculados en uno y otro tipo de centro. Describe:
   a) ¿Qué provincias andaluzas cuentan con un menor porcentaje de alumnos matriculados en centros públicos? ¿Y en qué provincia este porcentaje es mayor?
   b) Observa ahora la misma situación pero en el resto de las provincias españolas. ¿Cuáles son las que tienen más matriculados en centros privados en términos relativos?
   c) ¿Qué hechos podrían explicar estas diferencias tanto a nivel andaluz como en el resto del país?
3. ¿Cuántos centros de carácter público o privado hay en tu municipio? Consulta la web de la Consejería de Educación de la Junta de Andalucía.
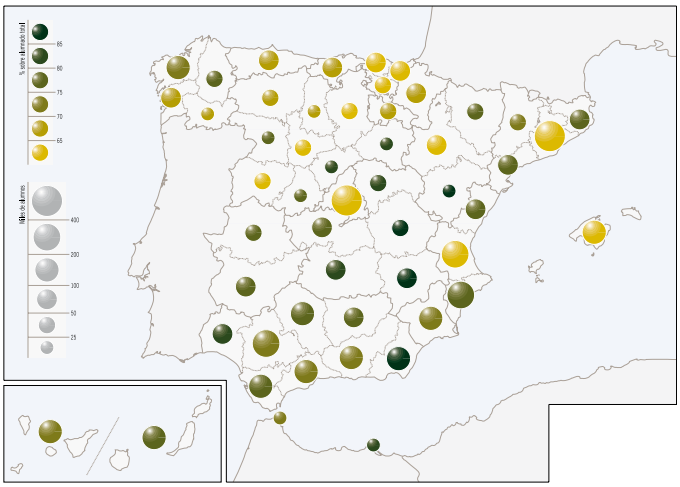
Alumnado matriculado en centros públicos por provincias en España. Curso 2007-2008