Servicios ·3

Gráfico "Principales regiones de la Unión Europea según número de pernoctaciones en alojamientos turísticos". Año 2007

1. Sobre un mapa político mudo de Europa, localiza y colorea las regiones con más pernoctaciones en alojamientos turísticos según el gráfico. Posteriormente contesta:
   a) ¿En qué países se concentran?
   b) ¿Qué tipo de atractivos –playas, paisajes, monumentos, etc.- crees que buscan preferentemente los turistas que visitan estas áreas?
   c) ¿Qué lugar ocupa Andalucía en cuanto al número de plazas en alojamientos turísticos y según el número de pernoctaciones? ¿Qué indica esta diferencia? ¿A qué puede deberse?
2. El impacto de la crisis en el turismo suele notarse en el descenso del número de pernoctaciones. ¿Por qué? ¿Qué estrategias pueden poner en marcha los empresarios del sector para reducir esta caída? ¿Qué alternativas tiene el turista para economizar sin reducir sus días de vacaciones?

Principales regiones de la Unión Europea según número de pernoctaciones en alojamientos turísticos. Año 2007

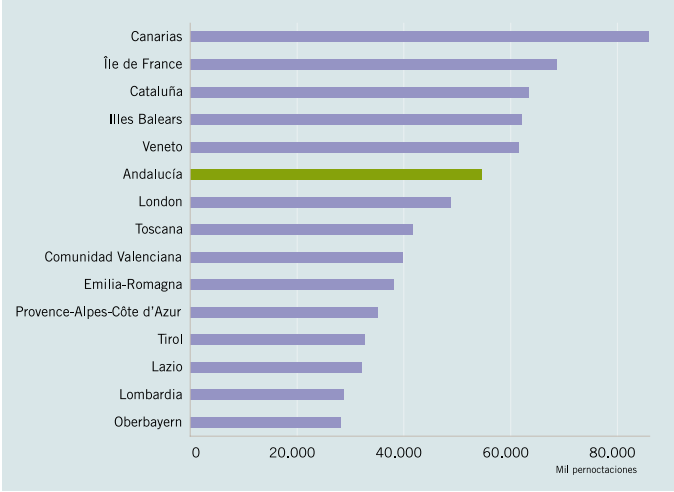

Mapa "Plazas en alojamientos turísticos por municipios en Andalucía". Año 2008

1. Con la información que proporciona el mapa elabora un sencillo informe en el que incluyas:
   - Áreas de Andalucía con mayor capacidad hotelera.
   - Municipios relevantes de la zona en cuanto a la oferta de alojamientos.
   - Tipo de alojamiento turístico característico.
   - Principales atractivos turísticos de la zona.
2. Localiza tu municipio en el mapa y comenta la información que aparece sobre el mismo.
   a) ¿Se podría decir que vives en un enclave turístico importante? ¿Por qué?
   b) ¿Cuál crees que es el principal potencial turístico de tu localidad?
   c) ¿Crees que el turismo aporta beneficios o perjuicios a las localidades eminentemente turísticas? Justifica tu respuesta.
3. Elabora una pequeña guía turística de tu municipio. Puedes incluir todo tipo de datos de interés, desde la localización o la climatología hasta la gastronomía y el ocio, pasando por los monumentos, etc. Puedes incluir planos, fotografías, etc.

Plazas en alojamientos turísticos por municipios en Andalucía. Año 2008

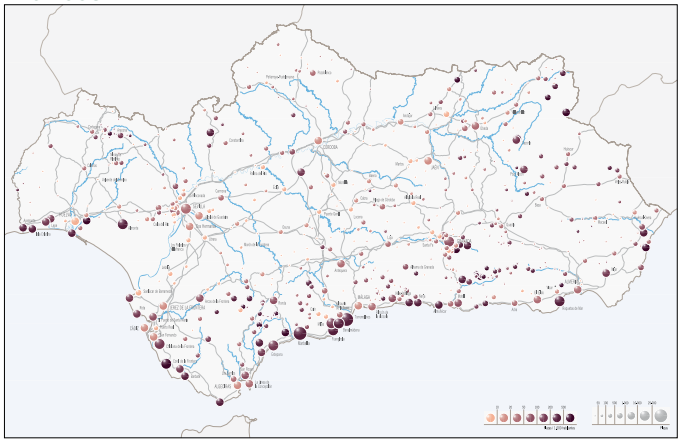

Mapa "Empleo en establecimientos relacionados con el sector turístico por municipios en Andalucía". Año 2008

1. La oferta de empleo en el sector turístico es muy variada. Haz una lista de todos los empleos que se te ocurran que puedan estar relacionados con dicho sector.
2. Localiza e identifica en el mapa los municipios andaluces con más de un 20% de empleos relacionados con el sector turístico. ¿Qué tipo de turismo se da en estos municipios? ¿Qué empleos crees que pueden ser los más solicitados?
3. ¿Por qué en ciudades como Córdoba, Málaga o Sevilla, donde el turismo es una actividad de gran importancia, el porcentaje de empleos en este sector es sensiblemente más bajo?

Empleo en establecimientos relacionados con el sector turístico por municipios en Andalucía. Año 2008

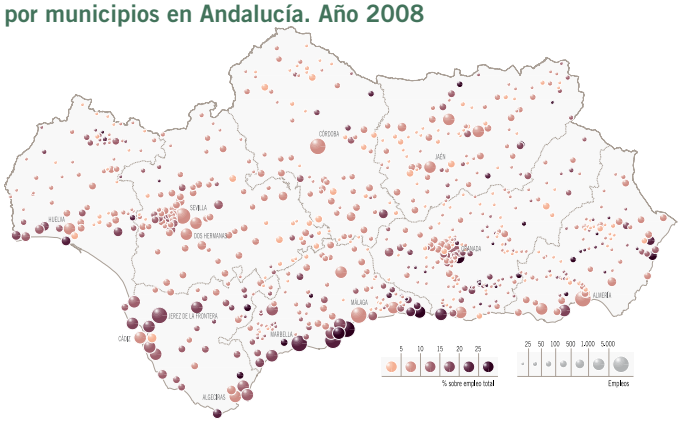

Mapa "Plazas en alojamientos de turismo rural por municipios en Andalucía". Año 2008

1. ¿Qué es el turismo rural? ¿Qué tipo de instalaciones ofrece? ¿Cuál suele ser su oferta de actividades?
2. Localiza en el mapa los municipios con más de 100 plazas en alojamientos rurales por cada mil habitantes. Identifícalos y explica su localización y cuáles son sus principales atractivos.
3. Planifica una estancia de cinco días de turismo rural por Andalucía. Para ello entra en la web oficial de turismo de la Comunidad (http://www.andalucia.org/destinos/) y elige una provincia. A partir de ahí puedes decidir la zona que vas a visitar, buscar un alojamiento, decidir las visitas culturales y las actividades de ocio que quieres realizar, decidir dónde comer, etc.